Lösungen zur Station 1

S. 11/2

a)

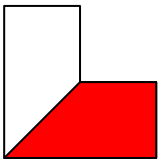

$\frac{1}{2}$

b)



$\frac{1}{3}$

c)

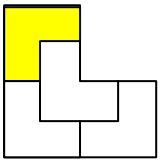

$\frac{1}{4}$

d)

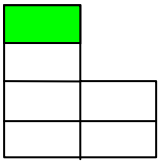

$\frac{1}{5}$

e)



$\frac{1}{6}$

S. 13/2

a)



$\frac{1}{2}$

b)

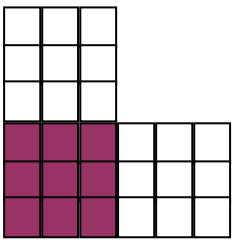

$\frac{1}{3}$

c)

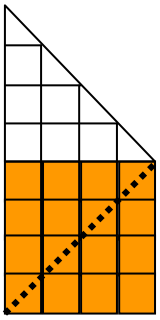

$\frac{2}{3}$

d)

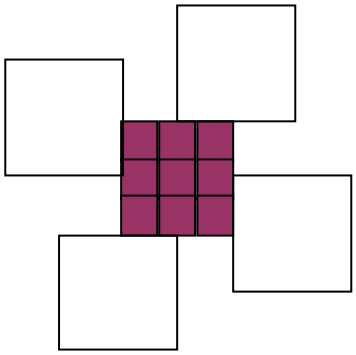

$\frac{1}{5}$

e)

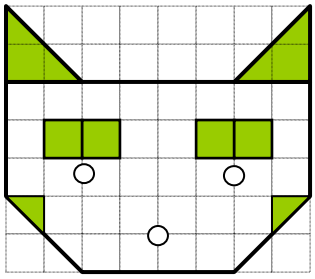

Der Katzenkopf besteht aus insgesamt
42 kleinen Quadraten,
davon sind 9 Quadrate grün.
D.h. der Anteil der gefärbten Quadrate beträgt $\frac{9}{42}$

$\frac{9}{42} = \frac{3}{14}$

3)

a)

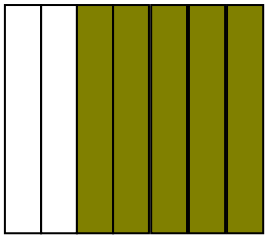

$\frac{2}{7}$; es fehlen $\frac{5}{7}$ zu einem Ganzen

b)

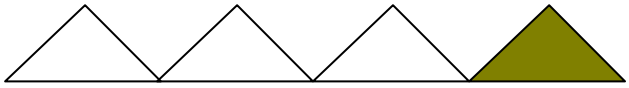

$\frac{3}{4}$; es fehlt $\frac{1}{4}$ zu einem Ganzen

c)

$\frac{4}{9}$; es fehlen $\frac{5}{9}$ zu einem Ganzen

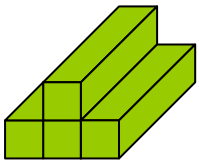

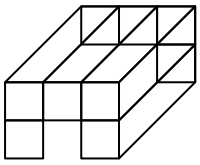

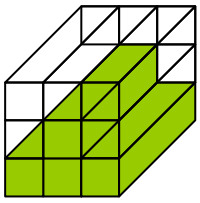

S. 14/G10

Mauritius



Thailand



Argentinien

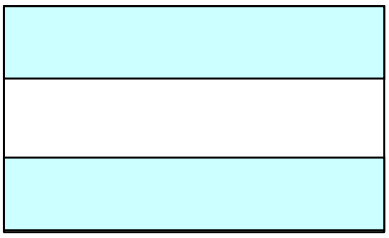

Indonesien

$\frac{1}{2}$ ist der rote Anteil bei der Flagge Indonesiens

$\frac{1}{3}$ ist der blaue Anteil bei der Flagge Thailands

$\frac{1}{4}$ ist der grüne Anteil bei der Flagge Mauritius

$\frac{1}{6}$ ist z.B. der Anteil eines weißen Streifens bei der Flagge Thailands

$\frac{2}{3}$ ist z.B. der Anteil der beiden blauen Streifen bei der Flagge Argentiniens

$\frac{2}{4}$ ist z.B. der Anteil des blauen und roten Streifens bei der Flagge Mauritius

$\frac{2}{6}$ ist z.B. der Anteil der weißen Streifen bei der Flagge Thailands

$\frac{3}{4}$ ist z.B. der Anteil des blauen, roten und gelben Streifens bei der Flagge Mauritius

$\frac{3}{6}$ ist z.B. der Anteil der weißen und eines roten Streifens bei der Flagge Thailands

$\frac{4}{6}$ ist z.B. der Anteil der weißen und roten Streifen bei der Flagge Thailands

$\frac{5}{6}$ ist z.B. der Anteil des blauen, der weißen und eines roten Streifens bei der Flagge Thailands